Централизованное тестирование по истории Беларуси, 2014

При выполнении заданий с кратким ответом впишите в поле для ответа цифру, которая соответствует номеру правильного ответа, или число, слово, последовательность букв (слов) или цифр. Ответ следует записывать без пробелов и каких-либо дополнительных символов. Имена правителей в заданиях с кратким ответом необходимо указывать словами: Пётр Первый или Пётр Великий, но не Пётр 1 или Пётр I.

В заданиях, где нужно установить соответствие между двумя столбцами, ответ запишите в виде сочетания букв и цифр, соблюдая алфавитную последовательность букв левого столбца. Некоторые данные правого столбца могут использоваться несколько раз или не использоваться вообще. Например: А1Б1В4Г2.

Если вариант задан учителем, вы можете вписать или загрузить в систему ответы к заданиям с развернутым ответом. Учитель увидит результаты выполнения заданий с кратким ответом и сможет оценить загруженные ответы к заданиям с развернутым ответом. Выставленные учителем баллы отобразятся в вашей статистике.

1. Древние славяне на территории Беларуси поклонялись деревьями особенно почитали:

1) ясень 2) сосну 3) вяз 4) дуб

2. У восточных славян крестьянин, который брал у богатого человека заём и таким образом попадал в зависимость, получил название:

1) смерд 2) холоп 3) закуп 4) бобыль

3. Определите последовательность событий:

А — княжение в Полоцке Рогволода
Б — битва на реке Немиге
В — поход князя Брячислава Изяславича на Новгород
Г — поход киевского князя Мстислава и семи русских князей на Полоцкую землю

1) АВБГ 2) ВГБА 3) БВАГ 4) АГВБ

4. Рисунки-иллюстрации к событиям, о которых рассказывается на страницах летописей и рукописных книг, — это:

1) витражи 2) фрески 3) миниатюры 4) гравюры

5. Процесс создания Великого Княжества Литовского (ВКЛ) был ускорен угрозой агрессии со стороны:

1) варягов (норманнов) 2) Московского государства
3) Польского Королевства 4) крестоносцев

6. Победа великого князя литовского Ольгерда на Синих Водах (1362):

1) содействовала заключению Кревской унии
2) ослабила позиции Швеции в Прибалтике
3) закрепила за ВКЛ большинство украинских земель
4) привела к полному разгрому Тевтонского ордена

7. В XV—XVI вв. в ВКЛ крестьяне-слуги:

1) арендовали феодальные имения на короткий срок
2) выполняли разные работы при дворе феодала
3) отрабатывали барщину как основную повинность
4) платили феодалу чинш за владение землей

8. В XVI в. в культуре ВКЛ появляется новый вид изобразительного искусства:

1) гравюра 2) миниатюра 3) иконопись 4) витраж

9. Казацко-крестьянская война в Речи Посполитой началась в:

1) 1609 г. 2) 1632 г. 3) 1648 г. 4) 1654 г.

10. Определите условия Люблинской унии:

а — проведение Польшей и ВКЛ общей внешней политики
б — введение общегосударственного языка в делопроизводство
в — создание общей судебной системы
г — предоставление полякам возможности приобретать и владеть имениями в Литве, а литвинам — в Польше

1) а, б 2) б, в 3) в, г 4) а, г

11. С территории Беларуси в XVII—XVIII вв. купцами вывозились:

1) соль, вино 2) галантерейные изделия 3) зерно, сало
4) металлические изделия

12. Принимая протестантское вероучение, магнаты и шляхта ВКЛ в то же время выступали против:

1) заключения церковной унии
2) увеличения налогов с земельных владений
3) внешней политики правительства 4) условий Люблинской унии

13. Последний король Речи Посполитой (1764—1795), сторонник умеренных реформ государственного строя, который уравнял в правах диссидентсткую и католическую шляхту, — это:

1) Я. Собесский 2) С. Понятовский 3) Н. Радзивилл Черный
4) Г. Валуа (Валезы)

14. Прочитайте выдержку из 10-й статьи Статута ВКЛ 1588 г.

«...Усё рыцарства, шляхту Вялікага Княства, пры вольнасцях іх звыклых, якія ад нас, гаспадара, і ад продкаў нашых ім нададзены, будзем павінны захоўваць і трымаць...»

Данный документ свидетельствует о (об):

1) юридической защите шляхетских прав
2) уравнении в правах всех сословий в государстве
3) формировании в ВКЛ абсолютной монархии
4) ограничении прав и привилегий шляхты

15. Город, в котором во второй половине XVIII в. находился крепостной театр А. Тизенгауза, обозначен на картосхеме цифрой:

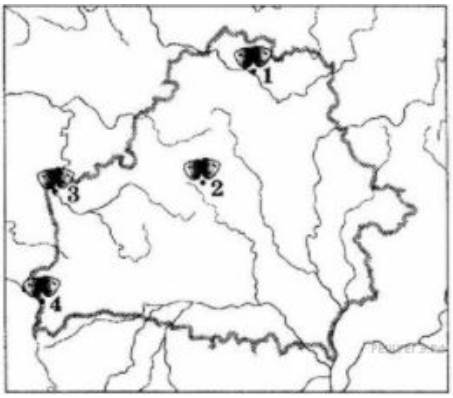

1) 1 2) 2 3) 3 4) 4

16. Главной целью шляхетского восстания 1830—1831 гг. являлась(-ось):

1) отмена крепостного права
2) провозглашение политических прав и свобод для всех сословий
3) ликвидация монархии в России 4) возрождение Речи Посполитой

17. В соответствии с городской реформой 1875 г. выборы в органы городского самоуправления проводились на основе ценза:

1) оседлости 2) образовательного 3) имущественного
4) сословного

18. Определите характерные черты экономического развития белорусских земель в первой половине XIX в.:

а — сокращение объема внешней торговли
б — углубление хозяйственной специализации
в — появление первых фабрик и заводов
г — быстрое развитие банковской системы

1) а, б 2) б, в 3) а, в 4) в, г

19. Революционные народники в 1870-е гг. ставили целью:

1) возрождение Великого Княжества Литовского
2) построение общества социальной справедливости
3) отмену крепостного права 4) установление диктатуры пролетариата

20. В экономике Беларуси во второй половине XIX в. значительное развитие получили отрасли промышленности, связанные с:

1) переработкой местного сырья 2) нефтедобычей
3) обработкой металлов 4) химическим производством

21. Представленный на фотографии архитектурный памятник XIX в. — это:



1) Виленский железнодорожный вокзал в Минске
2) городская ратуша в Минске
3) дворец Румянцевых-Паскевичей в Гомеле
4) дом-усадьба Ваньковичей в Минске

22. Определите событие, которое произошло последним из перечисленных:

1) отмена действия Статута ВКЛ 1588 г. в Витебской и Могилевской губерниях
2) создание Горы-Горецкого земледельческого института
3) создание Общества филаретов
4) окончательное оформление Белорусской социалистической громады (БСГ)

23. Исполком Рады Всебелорусского съезда принял 1-ю Уставную грамоту в:

1) 1916 г. 2) 1917 г. 3) 1918 г. 4) 1920 г.

24. Во время проведения индустриализации в БССР во второй половине 1920-х —1930-е гг. происходило:

1) строительство предприятий преимущественно перерабатывающей промышленности
2) законодательное закрепление частной собственности
3) налаживание прочных производственных и научных связей со странами Европы
4) формирование рыночной экономики

25. Определите один из итогов развития культуры в БССР в 1920—1930-е гг.:

1) перевод обучения во всех учебных заведениях на русский язык
2) создание системы подготовки специалистов со средним специальным и высшим образованием
3) введение обязательного всеобщего среднего образования
4) восстановление свободной деятельности всех религиозных организаций

26. Определите событие, которое произошло первым из перечисленных:

1) карательная операция гитлеровцев против жителей деревни Хатынь
2) освобождение города Витебска от гитлеровских войск
3) первый этап «рельсовой войны»

4) создание партизанского отряда «Красный Октябрь» под руководством Т. Бумажкова и Ф. Павловского

27. Город, в котором во время немецко-фашистской оккупации Беларуси развернула деятельность подпольная группа под руководством К. Заслонова, обозначен на картосхеме цифрой:

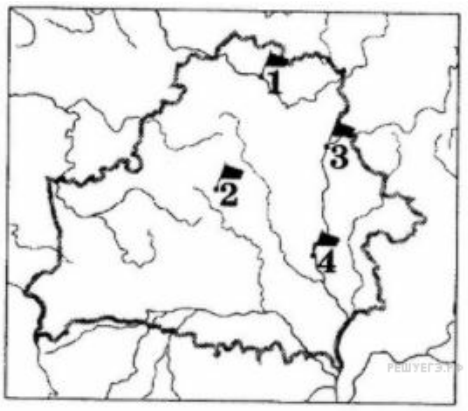

1) 1 2) 2 3) 3 4) 4

28. Прочитайте выдержку из документа.

«Беларусьурубяжох разсялення і лічбеннай перавагі беларускага народа абвяшчаецца НАРОДНАЙ РЭСПУБЛІКАЙ.

...Асноўныя законы Беларускай Народнай Рэспублікі зацьвердзіць Устаноўчы Сойм Беларусі...

...У рубяжох Беларускай Народнай Рэспублікі абвяшчаецца вольнасць слова, друку, сходаў, забастовак, хаўрусаў (аб'яднанняў, саюзаў); безумоўная вольнасць сумлення, незачэпнасць асобы і памешканьня...»

Определите название документа:

1) резолюция I Всебелорусского съезда (1917)
2) 2-я Уставная грамота Исполкома Рады Всебелорусского съезда (1918)
3) Манифест Временного рабоче-крестьянского советского правительства Беларуси (1919)
4) Декларация о провозглашении независимости Советской Социалистической Республики Беларуси (ССРБ) (1920)

29. Определите одну из причин отставания сельского хозяйства БССР в послевоенный период (1945—1953):

1) демонтаж колхозно-совхозной системы
2) ограниченный рынок сбыта сельскохозяйственной продукции
3) уничтоженная в годы войны материально-техническая база сельского хозяйства
4) введение разных форм хозяйствования на земле

30. Определите характерную черту общественно-политической жизни БССР во второй половине 1960-х — первой половине 1980-х гг.:

1) создание независимых от государства профсоюзов
2) быстрый количественный рост Компартии
3) появление партийной парламентской оппозиции
4) значительная демократизация политического режима

31. Определите характерные черты социально-экономического развития БССР во второй половине 1950-х — первой половине 1980-х гг.:

а — господство частной собственности в промышленности
б — ускоренное развитие отраслей промышленности, связанных с развертыванием НТР
в — создание фермерских хозяйств
г — развитие экономики БССР преимущественно по экстенсивному пути

1) а, б 2) б, в 3) б, г 4) а, г

32. Определите один из итогов политики перестройки, которая проводилась в СССР и БССР во второй половине
1980-х гг.:

1) повышение благосостояния населения
2) реализация концепции «развитого социализма»
3) появление фактической свободы слова и печати
4) усиление роли КПСС в общественно-политической жизни

33. Распространение и закрепление форм государственного устройства, основанных на признании принципов народовластия, свободы, равенства граждан, — это:

1) демократизация 2) гласность 3) плюрализм 4) федерация

34. Принятие на республиканском референдуме новой редакции Конституции Республики Беларусь с изменениями и дополнениями произошло в:

1) 1991 г. 2) 1996 г. 3) 1999 г. 4) 2006 г.

35. Согласно Конституции Республики Беларусь Президент избирается:

1) непосредственно народом на основе всеобщего свободного и прямого избирательного права
2) народом через специально созданную коллегию избирателей
3) депутатами Всебелорусского народного собрания
4) на совместном заседании Палаты представителей и Совета Республики

36. С 1998 г. Беларусь является членом международного объединения:

1) Движение неприсоединения 2) Североатлантический альянс (НАТО)
3) Организация Объединенных Наций (ООН)
4) Всемирная торговая организация

37. В 2010 г. произошло торжественное открытие восстановленного памятника архитектуры XVI в.:

1) дворца Румянцевых-Паскевичей в Гомеле
2) дворца Пусловских в Косово 3) Гольшанского замка
4) Мирского замка

38. Запишите цифру, которой на картосхеме обозначена примерная территория расселения радимичей.

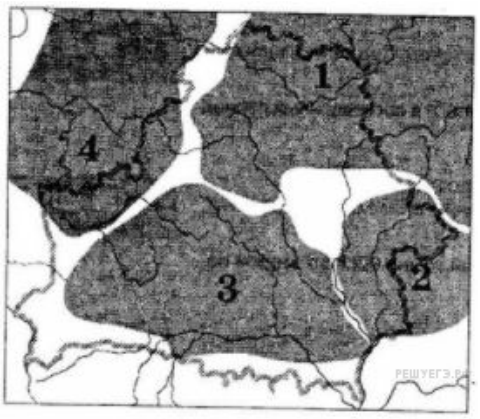

39. Узнайте историческую личность и запишите только имя.

Великий князь литовский с 1377 г. В 1385 г. заключил с Польшей соглашение — Кревскую унию. В 1386 г. принял католичество и стал королем Польши.

40. Определите три исторических события, которые произошли во второй половине XVI в.:

1) казацко-крестьянская война
2) принятие III Статута ВКЛ
3) заключение Люблинской унии
4) создание Трибунала ВКЛ
5) принятие Судебника Казимира IV
6) заключение Городельской унии

Ответ запишите цифрами в порядке возрастания. Например: 235.

41. Установите соответствие.

ОПРЕДЕЛЕНИЕ

А) одно из крупнейших течений протестантизма
Б) усиление влияния церкви на общественную и культурную жизнь
В) религиозно-политическая организация православного населения в ВКЛ
Г) процесс присоединения к польской культуре и распространение польского языка

ТЕРМИН, ПОНЯТИЕ

1) клерикализация
2) братство
3) полонизация
4) кальвинизм

Ответ запишите в виде сочетания букв и цифр, сохраняя алфавитную последовательность букв левого столбца. Например А2Б3В4Г1.

42. Особая организация войск в Российской империи в 1810—1857 гг., в которых военная служба сочеталась с сельскохозяйственным трудом, называлась *военные ... .*

43. Узнайте историческую личность и запишите только фамилию.

Активный участник первых тайных обществ. Друг А. Мицкевича. Один из первых собирателей и исследователей белорусского фольклора в первой половине XIX в., поэт, который издал 6 фольклорных песенных сборников. Считается, что он первым использовал в белорусских текстах букву «ў».

44. Установите соответствие.

СОБЫТИЕ

А) первое провозглашение ССРБ
Б) запрещение деятельности Товарищества белорусской школы (ТБШ) в Западной Беларуси
В) заключение Брестского мирного договора
Г) второе укрупнение территории БССР

ГОД

1) 1918
2) 1919
3) 1926
4) 1937

Ответ запишите в виде сочетания букв и цифр, сохраняя алфавитную последовательность букв левого столбца. Например А2Б3В4Г1.

45. Выберите и запишите термин (понятие), который(-ое) НЕ относится к истории Западной Беларуси в составе Польши:

коренизация, пацификация, комасация, дефензива.

46. 40-километровый прорыв в линии Советско-германского фронта между Велижем и Усвятами на стыке немецких армий «Север» и «Центр» получил название ... «ворота».

47. Установите последовательность событий.

А) Принятие «Конституции развитого социализма» в СССР
Б) авария на Чернобыльской АЭС
В) начало проведения экономической реформы А. Косыгина
Г) попытка государственного переворота в СССР (августовский путч)

Ответ запишите в виде сочетания букв. Например: ВГАБ.

48. Установите соответствие.

СФЕРА ДЕЯТЕЛЬНОСТИ	ФАМИЛИЯ
А) поэт	1) Д. Смольский
Б) скульптор	2) С. Селиханов
В) композитор	3) И. Добролюбов
Г) кинорежиссер	4) П. Панченко

Ответ запишите в виде сочетания букв и цифр, сохраняя алфавитную последовательность букв левого столбца. Например А2Б3В4Г1.

49. Определите три характерные черты социально-экономического развития Республики Беларусь во второй половине 1990-х гг. — начале XXI в.:

1) существование дефицита товаров народного потребления
2) сохранение государственных механизмов регулирования экономики
3) повышение материального благополучия населения республики
4) бесконтрольная приватизация промышленных предприятий
5) реализация государственной программы развития села

Ответ запишите цифрами в порядке возрастания. Например: 245.